Órgão:	Município de Santa Terezinha do Progresso/SC
Evento:	Concurso Público n.º 01/2020
Data de Realização:	02/08/2020 (Prova Matutina)
Caderno de Prova dos Cargos:	Médico
Total de Páginas:	8
Composição:	40 (quarenta) questões: - **Língua Portuguesa** (Questão 1 a 5); - **Matemática** (Questão 6 a 10); - **Informática Básica** (Questão 11 a 15); - **Conhecimentos Gerais e Atualidades** (Questões 16 a 20); - **Conhecimentos Específicos** (Questões 21 a 40);

Confira os dados de sua prova e relate ao Fiscal de Prova, caso encontre qualquer divergência, antes de começar a responder.

ATENÇÃO! Lei 9610/98: Todos os direitos reservados ao Grupo NBS Provas. É expressamente proibido veicular, distribuir, difundir, copiar ou publicar em qualquer outro website, que não seja o www.nbsprovas.com.br, seja no todo ou em parte, qualquer item desta prova, sem a prévia autorização, por escrito, do Grupo NBS Provas, sob pena das sanções previstas no Art. 184 do Código Penal Brasileiro.

LÍNGUA PORTUGUESA

Texto 1

(Disponível em http://pioneiro.clicrbs.com.br)

Texto 2

O TRATAMENTO DA ÁGUA

A água é um bem precioso muito utilizado para o consumo humano. Além de suas aplicações no preparo de alimentos, higiene pessoal, lavagem de roupas e carros ou para lazer, a água é considerada um bem essencial, o que significa que não existe vida na sua ausência. Por este motivo, é essencial a conscientização de todos na redução do consumo excessivo deste bem, com simples atitudes como reduzir o tempo de banho, o desperdício ao escovar os dentes, lavar o carro com baldes etc.

A abundância deste bem é alta. Cerca de dois terços de toda a superfície do planeta é ocupada por água. Neste contexto, é possível que alguém diga que nunca teremos danos ao abastecimento de água. Contudo, o problema é que, destes dois terços da superfície, apenas 3% são de água doce, ou seja, passíveis de captação para tratamento (em estações de tratamento de água, as ETA) e posterior consumo humano. Além disso, existe um agravante: 2 destes 3% estão em lugares de difícil acesso para captação, como as geleiras, por exemplo. Portanto, apenas 1% de toda água do planeta é acessível para consumo.

Para esta pequena porcentagem de água, existe um procedimento de tratamento necessário para que a saúde da população seja preservada. Este processo acontece nas ETA e a qualidade da água final é regulada pelo ministério da saúde.

(Disponível em http://educacao.globo.com)

1. Na charge de Iotti, Texto 1, a ideia de "consumo consciente" pode ser corretamente relacionada:

A. Ao desperdício financeiro.
B. À escassez de recursos naturais.
C. À preservação dos recursos hídricos.
D. Ao combate à degradação ambiental.

2. O termo RECOMENDA utilizado na charge corresponde a uma flexão do verbo recomendar na 3ª pessoa do singular do:

A. Futuro do indicativo.
B. Presente do indicativo.
C. Pretérito perfeito do indicativo.
D. Pretérito mais-que-perfeito do indicativo.

3. Considere o fragmento extraído do Texto 2:

"(...) a água é considerada um bem essencial, o que significa que não existe vida na sua ausência. Por este motivo, é essencial a conscientização de todos na redução do consumo excessivo deste bem, com simples atitudes como reduzir o tempo de banho (...)".

Inferimos da leitura desse segmento que:

A. A água é um recurso de fonte inesgotável.
B. É impossível solucionar o problema da escassez de água.
C. A água é indispensável aos seres humanos e à manutenção da vida.
D. Embora seja considerada essencial, a água não é vital para preservação da vida.

4. Extraídas do Texto 2, as conjunções coordenativas CONTUDO e PORTANTO correspondem respectivamente a:

A. Aditiva | Explicativa.
B. Alternativa | Conclusiva.
C. Conclusiva | Alternativa.
D. Adversativa | Conclusiva.

5. Na charge de Luiz Fernando Cazo reproduzida acima, as lacunas presentes nas falas dos personagens podem ser correta e respectivamente preenchidas pela assertiva:

A. POR QUE | PORQUE
B. PORQUE | POR QUE
C. POR QUÊ | PORQUE
D. PORQUÊ | POR QUE

MATEMÁTICA

Para todas as questões de matemática considere 4 casas após a vírgula para o respectivo cálculo, quando este for necessário:

6. Supondo que Santa Terezinha do Progresso possui aproximadamente 2.428 habitantes. E que da sua população total, 25% não são economicamente ativos. E que da população economicamente ativa, cerca de 43% são homens e cerca de 57% são mulheres. Deste modo é correto afirmar que temos:

A. 780 homens e 1045 mulheres economicamente ativos.
B. 783 homens e 1038 mulheres economicamente ativos.
C. 785 homens e 1045 mulheres economicamente ativos.
D. 790 homens e 1030 mulheres economicamente ativos.

7. Qual o valor da operação com as frações abaixo:

$$\frac{3}{4} - \frac{1}{6}$$

A. $\frac{7}{12}$
B. $\frac{2}{2}$
C. $\frac{2}{-2}$
D. $\frac{1}{3}$

8. Qual é o valor de 17 elevado ao cubo?

A. 289
B. 2.427
C. 4.913
D. 7.117

9. Calcule o MMC – Mínimo Múltiplo Comum dos números abaixo:

12 | 15 | 18 | 22

A. 1.260
B. 1.980
C. 2.120
D. 2.340

10. Qual é o volume do cilindro representado pela imagem abaixo, que possui 8 cm de altura e 3 cm de raio?

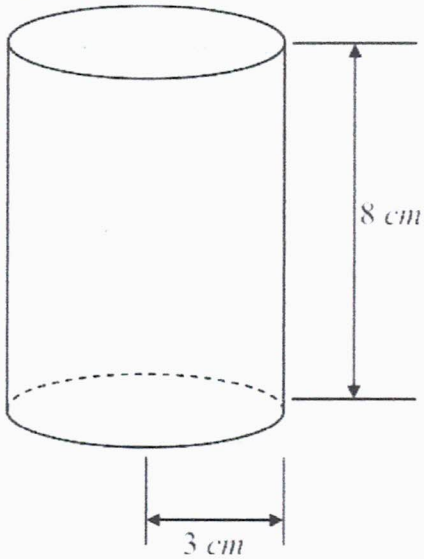

A. 201,38 cm²
B. 209,89 cm³
C. 215,32 cm³
D. 226,19 cm³

INFORMÁTICA BÁSICA

Para todas as questões de informática básica tenha por base o software de distribuição atual, na versão Português Brasil, salvo em caso de citação específica de versão ou distribuição no enunciado da questão:

11. Qual dos atalhos abaixo NÃO faz parte do conjunto de atalhos da aba "Revisão" no Microsoft Word?

A.

Ler em Voz Alta

B.

Caixa de Texto

C.

Mostrar Comentários

D.

Restringir Edição

12. Considerando que as imagens abaixo representam os principais atalhos do navegador de Internet Google Chrome, relacione a coluna 1 (função) com a imagem que representa o seu atalho (coluna 2):

COLUNA 1

1. **Extensões.**
2. **Abrir a página inicial.**
3. **Recarregar esta página.**
4. **Adiciona esta página aos favoritos.**

COLUNA 2

(__)

(__)

(__)

(__)

Assinale a alternativa que indica a sequência correta, seguindo a ordem <u>de baixo para cima</u>:

A. 4 | 2 | 3 | 1
B. 1 | 3 | 2 | 4
C. 2 | 3 | 4 | 1
D. 1 | 4 | 3 | 2

13. Completam correta e respectivamente as lacunas do texto abaixo:

Microsoft Excel é um programa de _____, que é usado para registrar e analisar dados numéricos, sendo uma coleção de _____, onde o seu ponto de encontro é denominado de _____.

A. planilha | colunas e linhas | célula
B. células | colunas e linhas | planilha
C. planilha | verticais e horizontais | fórmula
D. células | planilhas | fórmula

14. A figura abaixo nos traz o logo de qual navegador de internet?



A. Ópera Software
B. Google Chrome
C. Microsoft Edge
D. Mozilla Firefox

15. Qual é a combinação de teclas que devemos utilizar para minimizar todos os programas e/ou telas em aberto e mostrar a Área de Trabalho no Microsoft Windows?

A. Tecla Windows + D
B. Tecla Windows + R
C. Tecla Windows + A
D. Tecla Windows + T

CONHECIMENTOS GERAIS E ATUALIDADES

16. Os coronavírus são uma grande família de vírus que causam doenças que variam desde o resfriado comum até doenças mais graves, como a Síndrome Respiratória do Oriente Médio (MERS) e a Síndrome Respiratória Aguda Grave (SARS). Responsável pela atual pandemia mundial, o novo coronavírus (COVID-19) foi identificado inicialmente em 2019 em Wuhan, na China. Em 11 de março de 2020, a COVID-19 foi caracterizada pela OMS como uma pandemia. O termo "pandemia" se refere:

A. A distribuição geográfica de uma doença e não à sua gravidade.
B. A gravidade de uma doença e não à sua distribuição geográfica.
C. A notificação de casos acima do esperado em uma mesma localidade.
D. Ao grau de contaminação presente em determinado grupo da população.

17. Considere o que se propõe acerca do termo "lockdown" aplicado em determinadas cidades durante a pandemia da Covid-19 no Brasil:

I. Significa bloqueio total, sendo uma versão mais rígida do distanciamento social proposta de forma obrigatória, e que se descumprida, pode acarretar em multas e até mesmo no toque de recolher, uma vez que, restringe a circulação da população em lugares públicos, permitindo apenas, e de forma limitada, que se desloquem para tratar de questões essenciais, como ir à farmácias, supermercados ou hospitais.

II. É uma recomendação médica mais rigorosa a ser tomada e visa desacelerar a propagação do novo Coronavírus, assim como as medidas de isolamento social, proposta para proteger pessoas que podem ter tido contato com algum paciente infectado ou estão aguardando o resultado de testes ou que ainda, tenham o seu diagnóstico confirmado.

Acerca das afirmações é possível concluir que:

A. a primeira afirmativa é falsa, e a segunda é verdadeira.
B. a primeira afirmativa é verdadeira, e a segunda é falsa.
C. as duas afirmativas são verdadeiras.
D. as duas afirmativas são falsas.

18. Em 2020 o personagem Pica-Pau comemora 80 anos de sua criação. O famoso pássaro azul e vermelho, com espírito anárquico foi criado pelo desenhista:

A. Chuck Jones.
B. John Byrne.
C. Walt Disney.
D. Walter Lantz.

19. Em 26 de maio de 2020, a Polícia Federal (PF) deflagrou a Operação Placebo, que investiga suspeitas de desvios na Saúde do RJ para ações na pandemia de coronavírus. Entre os mandados de busca e apreensão, um deles dirigia-se ao Palácio Laranjeiras, residência oficial do:

A. Presidente Jair Bolsonaro.
B. Prefeito Marcelo Crivella.
C. Governador Wilson Witzel.
D. Senador José Serra.

20. Considere o que se propõe acerca do Município de Santa Terezinha do Progresso/SC, tendo por base as informações disponíveis em sítios oficiais (IBGE e Município):

I. No último dia 19 de julho o município comemorou 25 anos de sua emancipação, após ser desmembrado oficialmente de Campo Erê.

II. A quem nasce ou reside no município é atribuído o gentílico de terezinhano, e segundo letra de seu hino oficial, aos seus moradores também se atribuem os adjetivos de "povo amigo" e "povo feliz".

III. De acordo com as informações turísticas disponíveis no sítio oficial do município, sua colonização foi formada a partir das etnias italiana, alemã e polonesa, sendo considerados os rios e cachoeiras seus principais atrativos, uma vez que faz parte da região turística "Vale das Águas".

IV. Apresenta uma população de 2.428 habitantes, e área territorial de 119,653 km², segundo estimativa do IBGE/2019.

Assinale a alternativa correta:

A. Nenhuma das afirmativas está correta.
B. As afirmativas I, II, III e IV estão corretas.
C. Somente as afirmativas I e III estão corretas.
D. Somente as afirmativas II, III e IV estão corretas.

CONHECIMENTOS ESPECÍFICOS

A Lei Complementar n.º 10/ 2009 dispõe sobre o Estatuto dos Servidores Públicos do Município de Santa Terezinha do Progresso/SC. Assim, para responder as questões 21 a 24, considere o texto vigente na referida lei.

21. Após adquirir estabilidade, um servidor público municipal ocupante de cargo efetivo foi demitido. Considerando que na sua opinião a causa de sua demissão havia sido ilegal, ajuizou uma ação e conseguiu a anulação, uma vez que não haviam sido observados no trâmite do processo administrativo a observância aos princípios que estabelecem a aplicação do contraditório e da ampla defesa. Após transitada em julgado, a decisão judicial determinou o retorno do servidor ao cargo efetivo de origem, o que segundo o Art. 26 equivale a:

A. Reversão.
B. Recondução.
C. Reintegração.
D. Readaptação.

22. Após entrar em exercício, um servidor público municipal nomeado para cargo de provimento efetivo ficou sujeito ao estágio probatório. Segundo o que estabelece o Art. 18, são fatores a serem observados em sua avaliação:

I. Assiduidade e pontualidade.

II. Capacidade de iniciativa e produtividade.

III. Banco de horas e disposição de objetos no local de trabalho.

Assinale a alternativa correta:

A. Somente as afirmativas I e II estão corretas.
B. Nenhuma das afirmativas está correta.
C. As afirmativas I, II e III estão corretas.
D. Somente a afirmativa I está correta.

23. Um servidor público municipal ocupante de um cargo de provimento efetivo em decorrência de limitações físicas impostas por seu quadro de saúde, foi investido em outro cargo, após verificada a adequação em consonância com inspeção médica. Ocorreu que, algum tempo depois, o servidor foi julgado incapaz para exercer o serviço público. Com base no Art. 22, § 1º é correto indicar que o servidor deverá ser:

A. Exonerado.
B. Aposentado.
C. Reintegrado.
D. Avaliado por Comissão Especial acerca de seu desempenho.

24. Determinado servidor público aposentado em decorrência de uma invalidez, ao ser avaliado por uma junta médica oficial, teve seu quadro clínico alterado, sendo declarados insubsistentes os motivos que permitiram sua aposentadoria. Considerando o que estabelece o Art. 25 seu retorno à atividade (cargo) antes exercida não será admitida se o aposentado já tiver completado:

A. 55 anos.
B. 60 anos.
C. 65 anos.
D. 70 anos.

51 PLANOS DE SAÚDE SUSPENSOS...

(Disponível em https://blogdoaftm.com.br)

25. A charge de Luiz Fernando Cazo reproduzida acima tem relação com o Sistema Único de Saúde. Até meados de março de 2020, havia uma média de 2,62 leitos de UTI para cada 100 mil habitantes no SUS, o que nos colocava à frente de países como a Itália, contudo, vivemos atualmente um verdadeiro caos na área de saúde em decorrência da Covid-19. Visando conter este cenário, foi normatizado o uso de telemedicina para apoiar o cuidado a distância, mitigando riscos e apoiando a tomada de decisão no combate à pandemia. Considerando os princípios constitucionais do SUS, dentre eles, qual garante ao cidadão o direito de ser atendido desde a prevenção de doenças até o mais difícil tratamento de uma patologia, não excluindo nenhuma doença:

A. O princípio da Equidade.
B. O princípio da Integralidade.
C. O princípio da Transversalidade.
D. O princípio da Participação Social.

26. Segundo comunicado oficial, o Ministério da Saúde ampliou medidas para reforçar a assistência hospitalar no enfrentamento ao coronavírus no Brasil. Os primeiros reforços foram na Atenção Primária, a porta de entrada para receber os pacientes no SUS, para evitar que as pessoas procurassem os hospitais em um cenário de grande circulação em decorrência dos casos de Covid-19. Considerando o que estabelece a Lei 8.080/1990, popularmente conhecida como Lei Orgânica da Saúde, é correto afirmar, exceto:

A. A saúde é um direito fundamental do ser humano, devendo o Estado prover as condições indispensáveis ao seu pleno exercício.
B. O dever do Estado de garantir a saúde consiste na formulação e execução de políticas econômicas e sociais que visem à redução de riscos de doenças e de outros agravos.
C. O dever do Estado de garantir a saúde consiste no estabelecimento de condições que assegurem acesso universal e igualitário às ações e aos serviços para a sua promoção, proteção e recuperação.
D. O dever do Estado de garantir a saúde se destina a garantir às pessoas e à coletividade exclusivamente condições de bem-estar físico, mental e social.

27. A Lei 8.142/1990 dispõe sobre a participação da comunidade na gestão do Sistema Único de Saúde (SUS) e sobre as transferências intergovernamentais de recursos financeiros na área da saúde. Segundo o que estabelece seu Art. 4º, para receber recursos do Fundo Nacional de Saúde, a serem alocados na cobertura das ações e serviços de saúde a serem implementados pelos Municípios, eles deverão contar com:

I. Fundo, Plano e Conselho de Saúde.
II. Consórcio para execução de ações e serviços de saúde.
III. Contrapartida de recursos para a saúde no respectivo orçamento.

Assinale a alternativa correta:

A. Somente as afirmativas I e III estão corretas.
B. Nenhuma das afirmativas está correta.
C. As afirmativas I, II e III estão corretas.
D. Somente a afirmativa II está correta.

28. De acordo com reportagem divulgada pela Agência Brasil "a Estratégia Saúde da Família (ESF) tem contribuído significativamente para a redução da mortalidade infantil e da evasão escolar no Brasil. Esta conclusão consta no estudo Impactos da Estratégia Saúde da Família e Desafios para o Desenvolvimento Infantil, lançado pelo Núcleo Ciência pela Infância, que é integrado pela Fundação Bernard van Leer, Fundação Maria Cecília Souto Vidigal, Insper, Faculdade de Medicina da Universidade de São Paulo (USP) e Universidade de Harvard".

(Adaptado. Disponível em https://agenciabrasil.ebc.com.br)

Considerando os principais elementos que caracterizam a ESF, analise o que se afirma a seguir:

I. É composta por uma equipe multiprofissional.
II. As atribuições de seus membros encontram-se na Política Nacional de Atenção Básica (PNAB).
III. Recomenda-se que o número de pessoas por equipe considere o grau de vulnerabilidade das famílias daquele território, sendo que, quanto maior o grau de vulnerabilidade, maior deverá ser a quantidade de pessoas por equipe.

Assinale a alternativa correta:

A. As afirmativas I, II e III estão corretas.
B. Nenhuma das afirmativas está correta.
C. Somente as afirmativas I e II estão corretas.
D. Somente as afirmativas I e III estão corretas.

29. Recentemente o Brasil viveu um surto de Sarampo, doença viral infecciosa aguda e facilmente transmissível, que pode acometer pacientes de todas as idades. Ciente de que a profilaxia (prevenção) do sarampo está disponível em apresentações diferentes, e que cabe ao profissional de saúde aplicar a vacina adequada para cada pessoa, de acordo com a idade ou situação epidemiológica, relacione as colunas:

COLUNA 1

1. Dupla viral
2. Tríplice viral
3. Tetra viral

COLUNA 2

(__) Protege do vírus do sarampo, caxumba e rubéola.
(__) Protege do vírus do sarampo, caxumba, rubéola e varicela (catapora).
(__) Protege do vírus do sarampo e da rubéola. Pode ser utilizada para o bloqueio vacinal em situação de surto.

Assinale a alternativa que indica a sequência correta, seguindo a ordem <u>de baixo para cima</u>:

A. 1 | 3 | 2
B. 2 | 3 | 1
C. 1 | 2 | 3
D. 3 | 2 | 1

30. Sabendo que a incidência de síndrome neuroléptica maligna raramente ocorre nos pacientes usando neurolépticos, analise o que se afirma a seguir acerca da sua administração:

I. Configuram-se como escolhas bastante seguras, apesar de bastante desconfortáveis para algumas pessoas mais sensíveis aos seus efeitos indesejados.
II. Os de alta potência (ex.: clorpromazina, levomepromazina, tioridazina) causam mais efeitos motores (impregnação); os de baixa potência (ex.: haloperidol), tendem a ser mais sedativos e a provocar maior ganho de peso, entre outros problemas.

Acerca das afirmações é possível concluir que:

A. as duas afirmativas são falsas.
B. as duas afirmativas são verdadeiras.
C. a primeira afirmativa é verdadeira, e a segunda é falsa.
D. a primeira afirmativa é falsa, e a segunda é verdadeira.

31. Tendo relação com o quadro clínico, sendo uma evolução lenta e progressiva dos sinais e sintomas do diabetes, dentre as assertivas dispostas a seguir, aquela que se relaciona o ritmo respiratório caracterizado por frequência e profundidade da respiração aumentada, e que representa a tentativa do corpo para diminuir a cetoacidose diabética:

A.

Ritmo de Kussmaul

B.



Ritmo de Cheyne-Stokes

C.

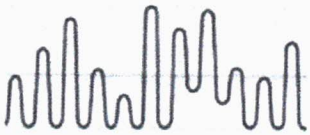

Ritmo de Biot

D.

Ritmo de Cantani

32. Considerando os dias atuais, onde a Hipertensão Arterial Sistêmica é considerada a mais frequente das doenças cardiovasculares, analise o que se afirma nas assertivas abaixo, indicando a opção incorreta:

A. Por ser na maior parte do seu curso assintomática, seu diagnóstico e tratamento é frequentemente negligenciado, além da baixa adesão, por parte do paciente, ao tratamento prescrito. Há ainda, dificuldade em se promover modificações de estilo de vida, o que inclui alimentação adequada e prática de exercícios físicos, que são de fundamental importância no processo terapêutico e na prevenção da hipertensão.

B. O tabagismo e uso excessivo de álcool não são considerados fatores de risco, pois a administração diária de doses progressivas de medicamentos resultará em se alcançar os níveis recomendados de pressão arterial.

C. É considerada como principal fator de risco para as complicações mais comuns como acidente vascular cerebral e infarto agudo do miocárdio, além da doença renal crônica terminal.

D. Podem ser indicadas como possíveis causas da Hipertensão Secundária: Doença Parenquimatosa Renal (glomerulopatia, pielonefrite crônica, rins policísticos, nefropatia de refluxo), Insuficiência aórtica, fístula arterio-venosa, tireotoxicose, doença Paget e beribéri (hipertensão sistólica).

33. Trata-se de uma infecção por fungo, causada pelo Sporothrix, que acomete o homem e diversas espécies animais, como cães, gatos e tatus, entre outros, cuja manifestação característica é o aparecimento de ferimentos e úlceras na pele e nas mucosas:

A. Psitacose.
B. Histoplasmose.
C. Esporotricose.
D. Dermatomicose.

34. O Sarampo é uma doença grave que pode deixar sequelas por toda a vida ou causar o óbito, e que em decorrência do surto vivenciado atualmente, cabe ao profissional de saúde saber identificar determinadas complicações relacionadas à fase em que o indivíduo contrai a doença. Neste contexto, avalie o que se afirma a seguir:

I. Podem ser indicadas entre as sequelas relacionadas ao Sarampo (cegueira, surdez, mobilidade reduzida e déficit cognitivo).

II. A infecção viral tem como característica comprometer o sistema imunológico do paciente, e por isso, outras infecções agem mais agressivamente.

III. Em adultos a principal complicação relacionada é a pneumonia, em decorrência da baixa imunidade, contudo, um dos principais indícios é a presença de febre por mais de 3 dias, após o aparecimento do exantema, o que deve ser considerado um sinal de alerta e pode indicar o aparecimento de complicações, como infecções respiratórias, otites, doenças diarreicas e neurológicas.

Assinale a alterativa correta:

A. As afirmativas I, II e III estão corretas.
B. Somente as afirmativas I e II estão corretas.
C. Somente as afirmativas I e III estão corretas.
D. Somente as afirmativas II e III estão corretas.

35. Considerando que as reações anafiláticas possuem manifestações clínicas mistas, o que inclui uma série de sinais e sintomas, dentre eles, é correto afirmar que estão diretamente relacionados aos sintomas cardiovasculares:

A. Urticária, Prurido, Angioedema.
B. Hipotensão, Tontura, Arritmias.
C. Vômito, Náusea, Cólica, Dor Abdominal.
D. Dispneia, Edema Laríngeo, Broncoespasmo.

36. As UBS devem assegurar o acolhimento e escuta ativa e qualificada das pessoas, mesmo que não sejam da área de abrangência da unidade, com classificação de risco e encaminhamento responsável de acordo com as necessidades apresentadas, articulando-se com outros serviços de forma resolutiva, em conformidade com as linhas de cuidado estabelecidas pela Atenção Básica. Deste modo, a UBS deve *cumprir algumas funções para contribuir com o* funcionamento das Redes de Atenção à Saúde. Em relação à essas funções, avalie o que se afirma a seguir:

I. Tem por função ser base, atuando no mais elevado grau de descentralização e capilaridade, cuja participação no cuidado se faz sempre necessária.

II. Ela tem por objetivo coordenar o cuidado, elaborando, acompanhando e criando projetos terapêuticos singulares, bem como acompanhando e organizando o fluxo dos usuários entre os pontos de atenção.

III. Uma de suas funções é estabelecer a hierarquia entre os membros da ESF, dimensionando-a a partir da idade, bem como da qualificação profissional.

Assinale a alterativa correta:

A. As afirmativas I, II e III estão corretas.
B. Somente as afirmativas I e II estão corretas.
C. Somente as afirmativas I e III estão corretas.
D. Somente as afirmativas II e III estão corretas.

37. Trata-se da situação que pode constituir potencial ameaça à saúde pública, como a ocorrência de surto ou epidemia, doença ou agravo de causa desconhecida, alteração no padrão clínico-epidemiológico das doenças conhecidas, considerando o potencial de disseminação, a magnitude, a gravidade, a severidade, a transcendência e a vulnerabilidade, bem como epizootias ou agravos decorrentes de desastres ou acidentes. O texto nos traz a definição de:

A. Epidemia Viral.
B. Suspeita de zoonose.
C. Evento de saúde pública (ESP).
D. Notificação compulsória imediata (NCI).

38. Trata-se de um sinal indicativo de meningite e que consiste no despertar de uma contratura dolorosa da região lombar, quando se faz a flexão da coxa sobre a bacia com a perna em extensão:

A. Sinal de Neri
B. Sinal de Kernig
C. Sinal de Lhermitte
D. Sinal de Brudzinski

Em sua redação vigente, o Código de Ética Médica é composto de 26 princípios fundamentais do exercício da medicina, 11 normas diceológicas, 117 normas deontológicas e quatro disposições gerais. Aprovado pela Resolução CFM nº 2.222/2018, considere-o ao responder as questões de número 39 e 40.

39. Dentre as mudanças apresentadas no Código de Ética Médica recebeu destaque, em sua apresentação, o artigo que estabelece os limites para o uso de redes sociais pelos médicos no exercício da profissão. Considerando as vedações impostas ao médico é correto indicar, exceto:

A. Deixar de usar todos os meios disponíveis de promoção de saúde e de prevenção, diagnóstico e tratamento de doenças, cientificamente reconhecidos e a seu alcance, em favor do paciente.
B. Deixar de informar ao paciente o diagnóstico, o *prognóstico, os riscos e os objetivos do tratamento*, salvo quando a comunicação direta possa lhe provocar dano, devendo, nesse caso, fazer a comunicação a seu representante legal.
C. Desrespeitar o pudor de qualquer pessoa sob seus cuidados profissionais.
D. Recusar-se a realizar atos médicos que, embora permitidos por lei, sejam contrários aos ditames de sua consciência.

40. Ainda considerando as mudanças propostas, outro ponto considerado relevante se refere às normas que definem a responsabilidade do médico assistente, ou seu substituto, ao elaborar e entregar o sumário de alta. Essas vedações são apontadas em relação:

A. Ao sigilo profissional.
B. Aos documentos médicos.
C. Aos pacientes e familiares.
D. As auditorias e perícias médicas.